	UNIVERSIDADES PÚBLICAS DE LA COMUNIDAD DE MADRID PRUEBAS DE ACCESO A LOS ESTUDIOS UNIVERSITARIOS (LOGSE) Curso 2002-2003 MATERIA: GEOGRAFÍA	Junio Septiembre R1 R2

Ejercicio nº

INSTRUCCIONES GENERALES Y VALORACIÓN

Dispone de dos opciones para contestar (**A** y **B**). Debe escoger exclusivamente una de ellas.
La puntuación total será en ambas opciones de **10 puntos**, correspondiendo a la primera parte **3,5 puntos** (1,5 puntos al apartado 1.1 y 2 puntos al apartado 1.2), **4 puntos** a la segunda parte y a la tercera **2,5 puntos**.
TIEMPO. **Duración de la prueba:** 1 hora y 30 minutos.

OPCIÓN A

1ª Parte

1.1. *Cuestiones*: Defina, en el cuadernillo adjunto, los siguientes términos o conceptos geográficos, utilizando como máximo una cara del cuadernillo:

Industria petroquímica, Inflación, Longitud geográfica, Régimen de tenencia de la tierra, Tasa de natalidad, Vulcanismo.

Puntuación máxima: 1,5 puntos.

1.2. A la vista del "***Mapa de la ganadería bovina en España en 1996***" señale cuáles son las Comunidades Autónomas que poseen más de 300.000 cabezas. Formule una explicación coherente de esta localización en las tres Comunidades Autónomas situadas en la Cornisa Cantábrica.

Puntuación máxima: 2 puntos.

Mapa de la ganadería bovina en España en 1996

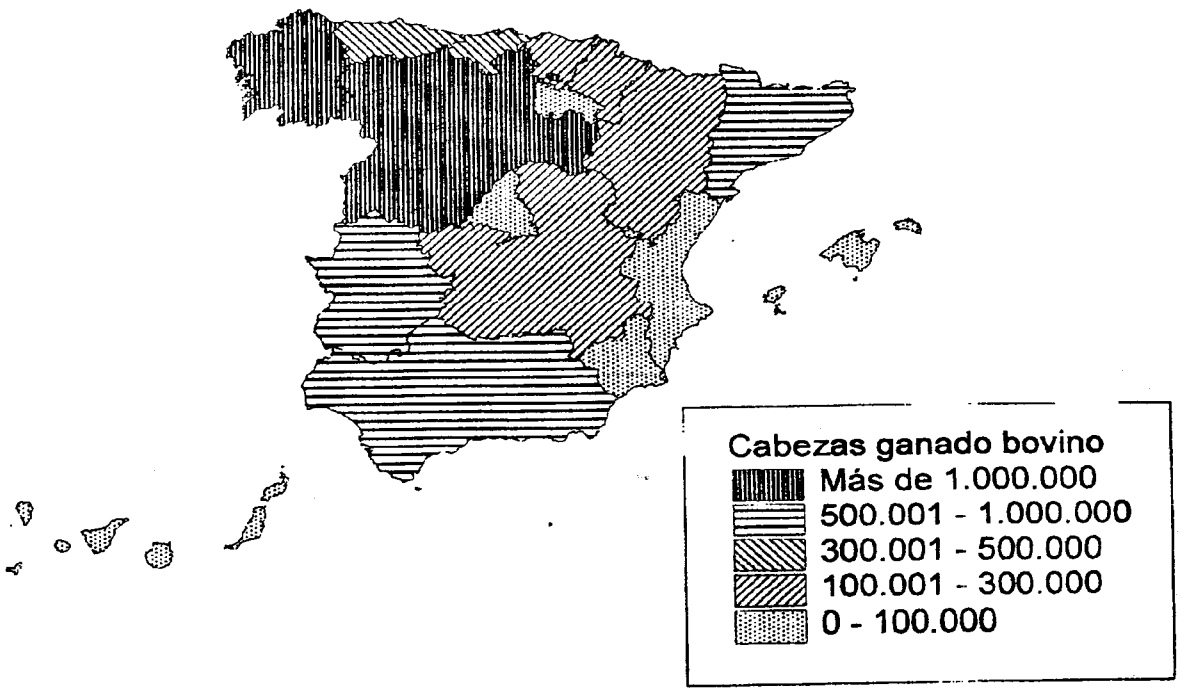

2ª Parte

Tema ***"Las formaciones vegetales de la España peninsular e insular".***

Desarrolle, de manera sintética, el tema propuesto (utilice, como máximo, ambas caras de un folio), atendiendo, al menos, a los siguientes puntos:

- Enuncie los principales tipos de formaciones y su relación con los distintos climas.
- Analice exclusivamente las formaciones vegetales de la España mediterránea, haciendo especial hincapié en:
  - Especies vegetales más importantes.
  - Condicionamientos geográficos (topográficos, litológicos, climáticos, humanos, etc.)

Puntuación máxima: 4 puntos.

3ª Parte

Comentario del gráfico adjunto:

Realice un comentario del plano adjunto atendiendo al menos a los siguientes aspectos:

- Descripción y características.
- Aspectos históricos y sociales que explican esta estructura

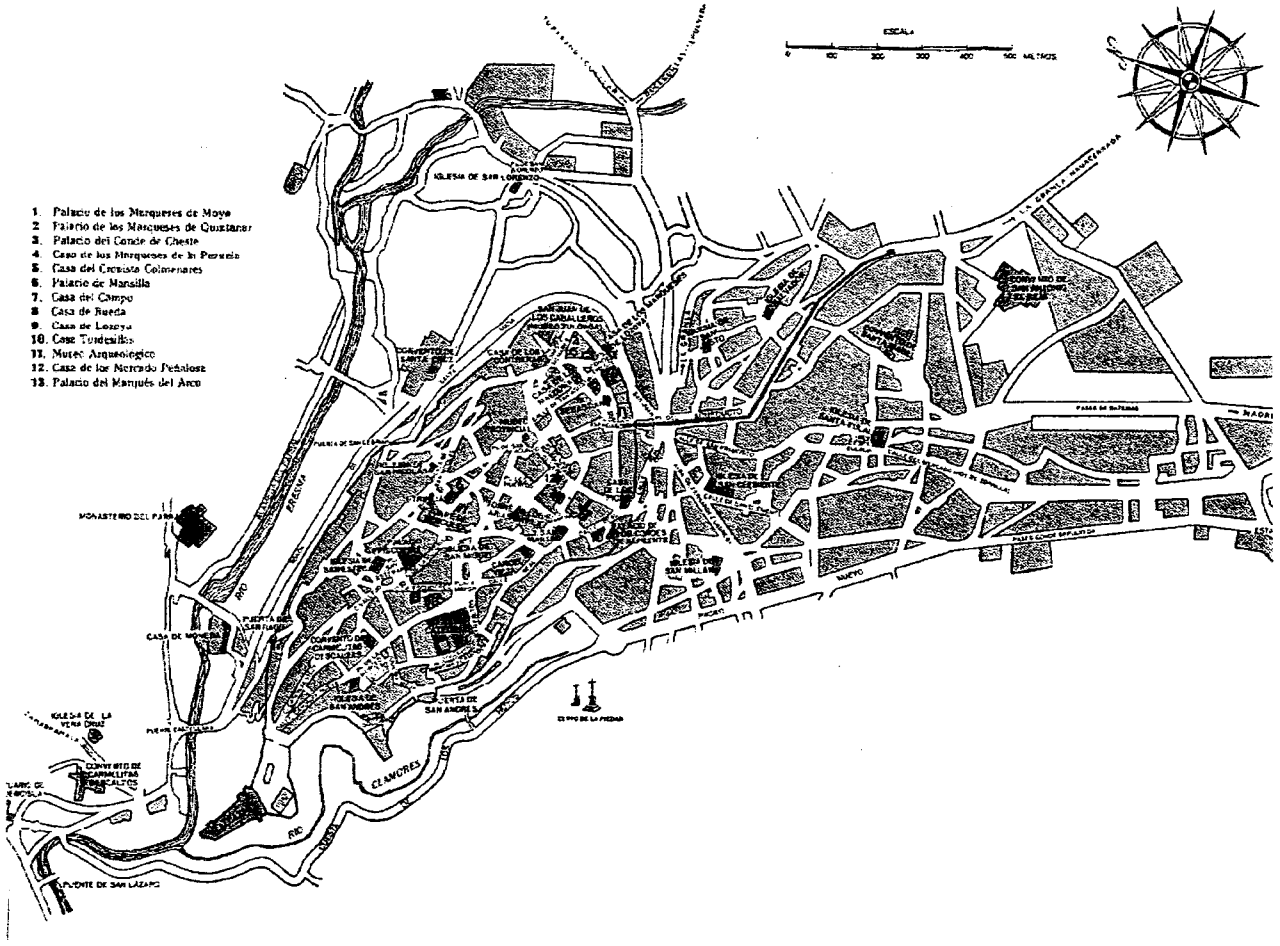

Puntuación máxima: 2,5 puntos.

	UNIVERSIDADES PÚBLICAS DE LA COMUNIDAD DE MADRID PRUEBAS DE ACCESO A LOS ESTUDIOS UNIVERSITARIOS (LOGSE) Curso 2002-2003 MATERIA: GEOGRAFÍA	Junio Septiembre R1 R2

Ejercicio nº

INSTRUCCIONES GENERALES Y VALORACIÓN

Dispone de dos opciones para contestar (**A** y **B**). Debe escoger exclusivamente una de ellas.
La puntuación total será en ambas opciones de **10 puntos**, correspondiendo a la primera parte **3,5 puntos** (1,5 puntos al apartado 1.1 y 2 puntos al apartado 1.2), **4 puntos** a la segunda parte y a la tercera **2,5 puntos**.
TIEMPO. **Duración de la prueba:** 1 hora y 30 minutos.

OPCIÓN B

1ª Parte

1.1. *Cuestiones*: Defina, en el cuadernillo adjunto, los siguientes términos o conceptos geográficos, utilizando como máximo una cara del cuadernillo:

Área metropolitana, Capa freática, FMI, Gota fría, Minifundio, Plano ortogonal.

Puntuación máxima: 1,5 puntos.

1.2. A la vista del mapa adjunto, ***"Porcentaje de superficie forestal quemada sobre el total del terreno forestal de España en 1998"***, indique las provincias con índices superiores a 1,75% de superficie quemada. Comente los factores físicos y humanos que pueden explicar los incendios forestales y sus repercusiones.

Puntuación máxima: 2 puntos.

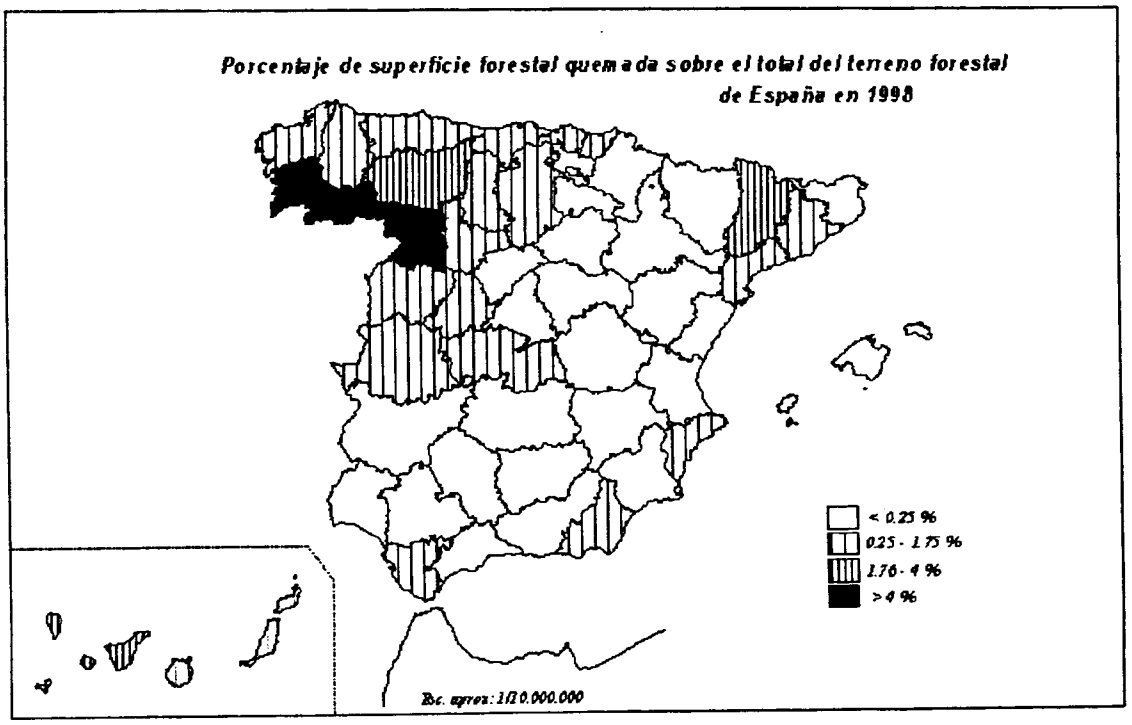

2ª Parte

Tema: "***La distribución espacial de la población española***"

Desarrolle, de manera sintética, el tema propuesto (utilice, como máximo, ambas caras de un folio), atendiendo al menos a los siguientes aspectos:

- Contrastes de densidad: áreas urbanas y espacios semidesérticos.
- Factores naturales, históricos y económicos que inciden en dicha distribución.
- El papel de los ejes de comunicación en la distribución de la población.

Puntuación máxima: 4 puntos.

3ª Parte

Comentario de la fotografía adjunta :

Realice un comentario de la imagen adjunta, atendiendo, al menos, a los siguientes aspectos:

a) Principales elementos del paisaje.
b) Factores del medio físico que configuran el paisaje.
c) Usos del suelo y características del poblamiento.

Puntuación máxima: 2,5 puntos.

GEOGRAFÍA

	UNIVERSIDADES PÚBLICAS DE LA COMUNIDAD DE MADRID PRUEBAS DE ACCESO A LOS ESTUDIOS UNIVERSITARIOS (LOGSE) Curso 2002-2003 MATERIA: GEOGRAFÍA	Junio Septiembre R1 R2

Ejercicio nº

CRITERIOS ESPECÍFICOS DE CORRECCIÓN

La puntuación total será en ambas pruebas de **10 puntos**, correspondiendo a la primera parte **3'5 puntos** (1'5 al primer apartado y 2 al segundo), a la segunda, **4 puntos** y a la tercera, **2'5 puntos**. La estructura y los criterios de corrección serán los siguientes, tanto para la Opción A como para la Opción B:

La **primera parte** de la prueba se compone, en primer lugar (1.1.), de la definición de una serie de términos geográficos y conceptos. En segundo lugar (1.2.) se presenta un mapa, del que se solicita el comentario.

Las respuestas al **apartado 1.1.** deberán valorarse con un criterio amplio, ya que son numerosas las correctas posibilidades expresivas. En todo caso se atenderá a la precisión geográfica en la caracterización del término o concepto. La puntuación total es de **1'5 puntos** pero, para una valoración más ajustada cada término o concepto tiene una puntuación parcial máxima de **0'25 puntos.**

Los mapas del **apartado 1.2.** tienen una puntuación máxima de **2 puntos,** y en ellos debe atenderse a la correcta localización (valorada con **1 punto**) y caracterización de los elementos solicitados (Opción A: **Galicia** , **Castilla y León, Cataluña, Asturias, Cantabria, Extremadura** y **Andalucía**. Opción B: **León, Lleida, Orense, Pontevedra, Santa Cruz de Tenerife y Zamora**.

La **segunda parte** solicita el desarrollo de un tema en un espacio restringido. Se valorará en él fundamentalmente la claridad y la organización sintética de los conocimientos, la correcta localización y distribución, en su caso, y la comprensión y caracterización de los fenómenos geográficos o de sus interrelaciones junto con el uso de un vocabulario geográfico adecuado.
La puntuación total máxima será de **4 puntos**.

La **tercera parte** propone el comentario de un documento geográfico. Se valorará la capacidad de extraer información, de analizar los datos y de caracterizar la situación observada y de relacionarla con sus causas y posibles consecuencias y la utilización para todo ello de un vocabulario geográfico adecuado. El plano de la opción **A** corresponde a **Segovia.** La lámina de la opción **B** pertenece al **Valle de la Hermigua** (La Gomera).
Corresponde a esta tercera parte una puntuación total máxima de **2'5 puntos.**

En las tres partes de que consta la prueba se aconseja tener en cuenta los aspectos formales, su presentación, ortografía y redacción.